Nombres et calcul

CE1

Nom : .....

Expédition forestière

ReCreatisse.com

Nombres et calcul – Expédition forestière

CE1

Nom : ……

DATE :……

Complète les étiquettes et le tableau .













c	d	u
……	……	……



Si je plante une graine dans chaque carré de terre, il y aura …….. arbres.

……+……+……+……+…… = …… Je peux écrire aussi ……. X ……..= ……..

c	d	u
……	……	……





…. + ….. + ……= …..

(…. X ….) + (…. X ….) + …… = …….

recreatisse.com

Nombres et calcul – Expédition forestière

CE1

Nom : ……

DATE :……

2

1 - Complète les étiquettes et le tableau .



c	d	u
……	……	……

…. + ….. + ……= …..

(…. X ….) + (…. X ….) + …… = …….



c	d	u
……	……	……

…. + ….. + ……= …..

(…. X ….) + (…. X ….) + …… = …….

2 – Colorie l'arrosoir qui porte le nombre le plus grand en jaune .



recreatisse.com

Nombres et calcul – Expédition forestière

CE1

Nom : ……

DATE :……

1 - Complète les étiquettes et le tableau .

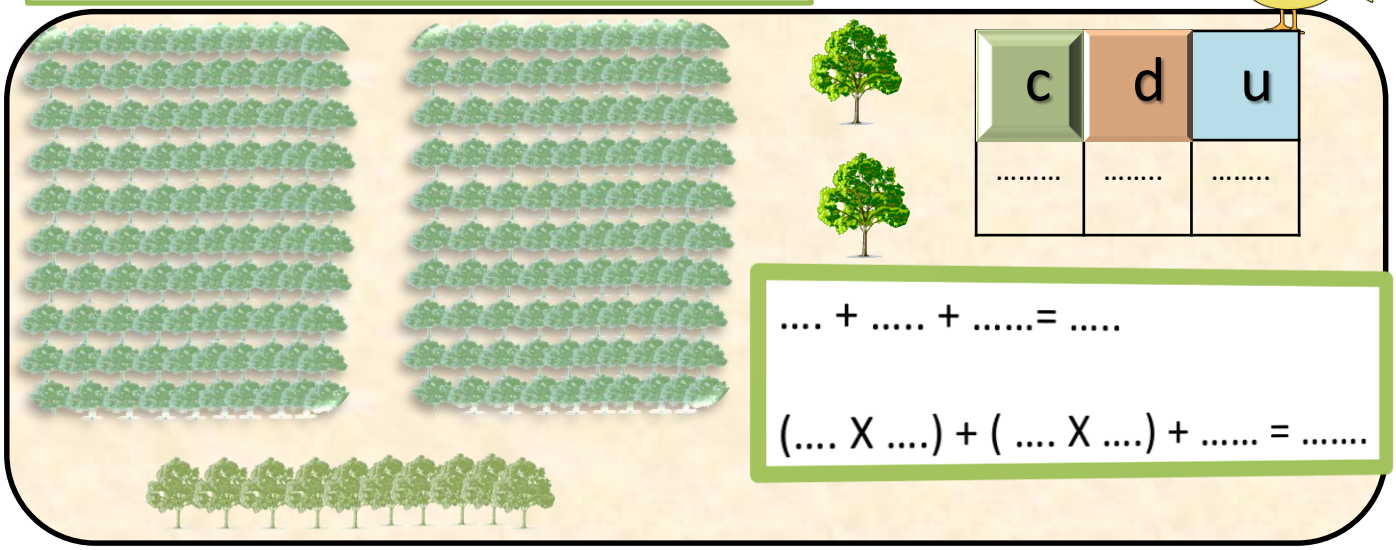

2 – Range ces nombres dans l'ordre croissant .

286 – 368 – 478 – 268 - 386

……

3 – Range ces nombres dans l'ordre décroissant .

357 – 375 – 360 – 306 - 370

……

4 – Continue la suite numérique .

170 – 180 - ……..- ……..- …….. - …….. - …….. - …….. - …….. - ……..

recreatisse.com

Nombres et calcul – Expédition forestière

CE1

Nom : ……. DATE :…….. Dictée de nombres 4

1 - Complète les phrases avec ces nombres .

412 124 240 342

Je suis entre 200 et 300, je suis ……
Je suis entre 400 et 500, je suis ……
Je suis entre 100 et 200, je suis ……..
Je suis entre 300 et 400, je suis ……..

2 – Trouve le précédent et le suivant de chaque nombre .

…… 304 ……	…… 199 ……	…… 309 ……
…… 400 ……	…… 289 ……	…… 370 ……
…… 300 ……	…… 200 ……	…… 499 ……

3 – Continue les suites numériques .

242 – 244 - ……..- ……..- …….. - …….. - …….. - …….. - …….. - ……..

375 – 380 - ……..- ……..- …….. - …….. - …….. - …….. - …….. - ……..

Nombres et calcul – Expédition forestière

CE1

Nom : ..... DATE :.....

Avant / après

5

1 – Ecris les nombres en lettres .



208 : .....

476 : .....

517 : .....

391 : .....

2 – Ecris le nombre correspondant .

400 + 60 + 6 = ...

300 + 20 + 1 = ...



200 + 30 + 9 = ...

400 + 4 = ...

500 + 10 + 7 = ...

200 + 90 + 3 = ...

J'ai 2 centaines, 5 dizaines et 3 unités : .....
J'ai 30 dizaines et 5 unités : .....
J'ai 4 centaines et 8 dizaines : .....
J'ai 427 unités : .....

3 – Continue la suite numérique .

360 – 370 - .....- .....- ..... - ..... - ..... - ..... - ..... - .....

recreatisse.com

Nombres et calcul – Expédition forestière

CE1

Nom : ……

DATE :……

- 10 , + 10 , - 20 + 20

6

1 – Complète les étiquettes .

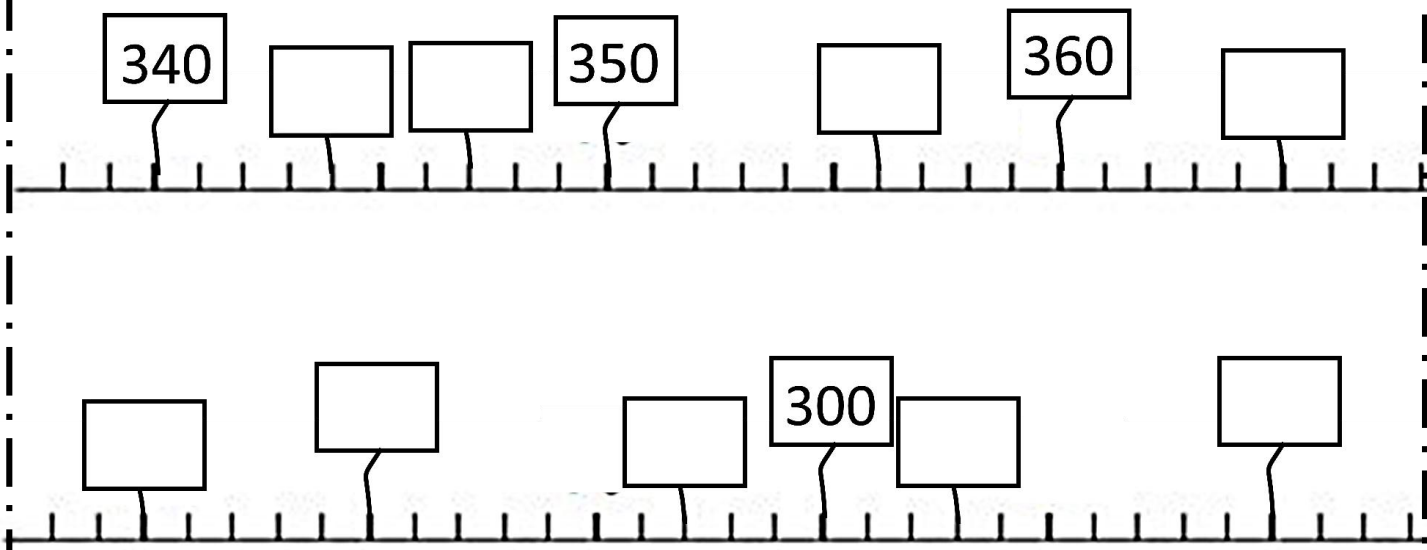

2 – Ecris la somme en centimes .

Rappel 1 € = 100 centimes

……centimes

……centimes



……centimes

recreatisse.com

Nombres et calcul – Expédition forestière

CE1

Nom : ..... DATE :.....

Calculer des sommes.

7

1 – Donne la hauteur des arbres en cm.

1m 50 cm
.....cm

1m
.....cm

2m70cm
.....cm

1m 95cm
.....cm

2 - Colorie l'étiquette de l'arbre le plus grand.

250 cm | 4m 10 cm | 391cm

3m 80 cm | 500 cm | 8 m

3 – Problème :

Chaque année cet arbre grandit de 50 cm. Il a 5 ans.
Quelle est sa taille ?

Cet arbre mesure .....cm ou .....m et .....cm

recreatisse.com

Nombres et calcul – Expédition forestière

CE1

Nom : ..... DATE :.....

Calculer des sommes.

8

1 – Pose et calcule :

298 + 37 = ...

376 + 142 = ...

137 + 56 + 199 = ...

204 + 190 + 98 = ...

	C	D	U
+			
=			

	C	D	U
+			
=			

	C	D	U
+			
+			
=			

	C	D	U
+			
+			
=			

2 – Calcule en ligne :

230 + 20 + 20 = ...



391 + 50 = ...

186 + 30 = ...

360 + 40 + 60 = ...



recreatisse.com

Nombres et calcul – Expédition forestière

CE1

Nom : ..... DATE :.....

Calculer des différences.

9

1 – Pose et calcule :

259 - 136 = ...

92 - 75 = ...

134 - 28 = ...

389 - 192 = ...

	C	D	U
-			
=			

	C	D	U
-			
=			

	C	D	U
-			
=			

	C	D	U
-			
=			

2 – Calcule en ligne :

267 – 50 = ...

400 - 70 = ...

510 – 80 = ...

375 – 45 = ...

recreatisse.com

Nombres et calcul – Expédition forestière

CE1

Nom : ..... DATE :.....

Calculer des produits.

10

1 – Pose et calcule :

42 X 2 = ...

34 X 3 = ...



25 X 5 = ...

124 X 4 = ...

	C	D	U
X			
=			

	C	D	U
X			
=			

	C	D	U
X			
=			

	C	D	U
X			
=			

2 – Calcule en ligne :

36 x 4 = (30 x 4) + (6 x 4)
36 x 4 = ... + ...
36 x 4 = ...

74 x 2 = (.... x....) + (.... X ....)
74 x 2 = ... + ...
74 x 2 = ...